第 26 講　公民総合問題

Step 1

1 直也さんは，「わが国の社会保障と経済」というテーマでレポートを書くために，調べたことから資料や図を作成し，ノートにまとめた。ノートをみて，各問に答えよ。

〈ノート〉

〈作成した資料と図〉

〈資料Ⅰ〉年齢階級別人口の割合

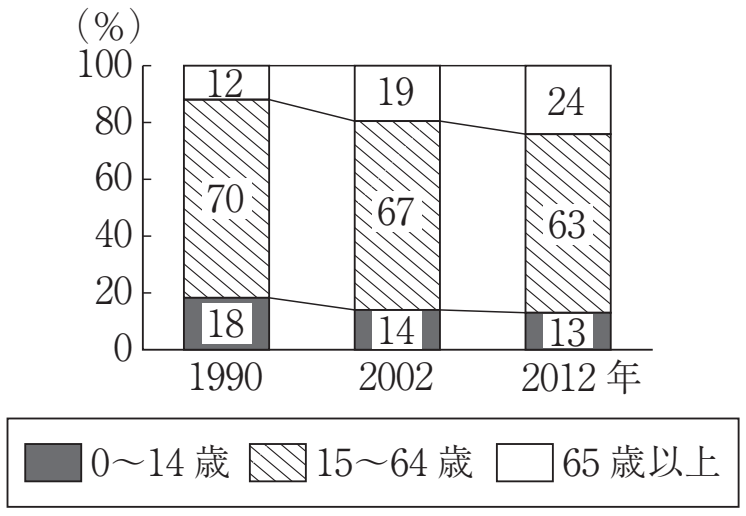

（2014／15 年版「日本国勢図会」等から作成）

〈資料Ⅱ〉働く世代の老後の生活への不安と貯蓄率

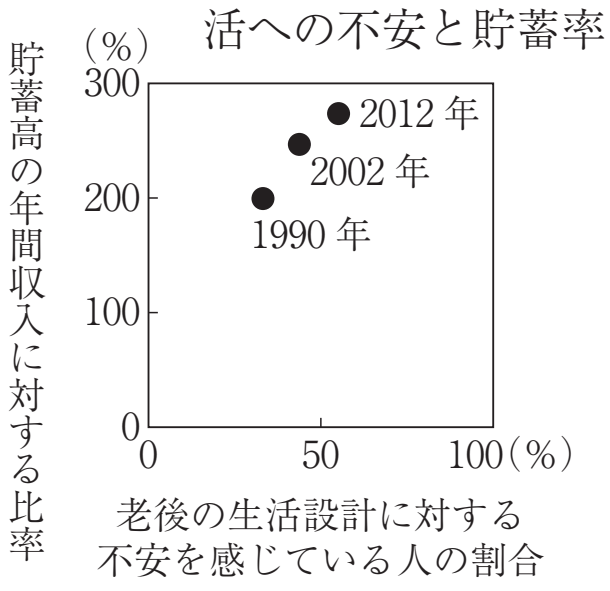

〈図〉社会保障がもつ経済効果

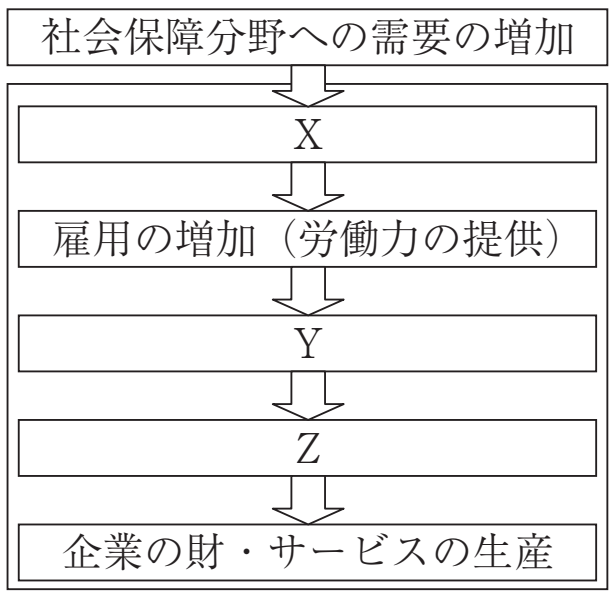

（資料Ⅱ，図は，平成 24 年版「厚生労働白書」等から作成）

〈考えたこと〉

○ 資料Ⅰ，Ⅱから，日本国憲法に社会保障の増進などについて定められた（ A ）を保障していくことが大切だと思う。

○ 資料Ⅰ，Ⅱから，現在の働く世代は，将来の社会状況を予想し，老後の生活に不安を感じて，貯蓄率を増やしているのだと思う。不安を感じる要因の一つは，①老後の保険金（年金）の支給額だと思う。

○ 「厚生労働白書」には，図のような②社会保障がもつ経済効果について書かれている。社会保障の拡充を通じて，経済成長が実現できることは望ましいことだと思う。

問１ ノートの（ A ）にあてはまるものを，次の 1〜4 から一つ選び，番号で答えよ。

1 平等権　　2 自由権　　3 請求権　　4 生存権

問２ 直也さんが，下線部①のように考えた理由を，資料Ⅰから読み取れることと，「納入額」の語句を使って書け。

問３　下線部②について，X～Z にあてはまる最も適切なものを，次の 1～3 から一つずつ選び，番号で答えよ。ただし，同じ番号は二度使わないこと。

1　企業からの賃金の受け取り

2　企業の財・サービスの生産

3　労働者の消費の増加

【福岡県】

Step 2

2 次の(1)〜(3)の問いに答えなさい。

(1) 労働に関するa，bの問いに答えなさい。

a　日本国憲法は，団結権，団体交渉権，団体行動権という労働三権を，労働者の権利として保障しており，労働者は団結して使用者と対等の立場で交渉することができる。労働者が使用者と交渉するために結成する団体は何とよばれるか。その名称を書きなさい。

b　次のア〜エの中から，日本における，雇用や労働の現状について述べたものとして誤っているものを1つ選び，記号で答えなさい。

ア　雇用において男女差別をなくすため，男女雇用機会均等法が定められている。

イ　終身雇用制の見直しや，非正規社員の増加など，雇用の形態に変化が生じている。

ウ　年功序列型賃金にかえて，能力や仕事の成果に応じて賃金を支払う企業が出てきている。

エ　ワーク・ライフ・バランスの考え方が広がり，男性の大半が育児休業制度を利用している。

(2) 国会に関するa，bの問いに答えなさい。

a　次の［　　］の中の文は，日本国憲法の国会に関する条文の一部である。文中の（ あ ），（ い ）に当てはまる語を，それぞれ書きなさい。

国会は，国権の（　あ　）機関であって，国の唯一の（　い　）機関である。

b　図1は，テロ対策に関連したある法律案の採決について示したものである。図1をもとにすると，国会において，この法律は成立したか，成立しなかったか，どちらであったか。そのように判断した理由とあわせて，簡単に書きなさい。ただし，**出席議員**という語を用いること。

図1

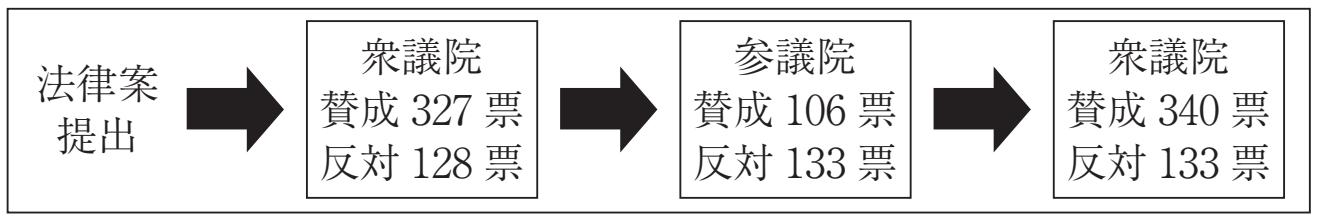

（注）　衆議院事務局資料などにより作成

(3) 日本では，情報化が進んで，消費に関する行動に変化がみられるようになった。グラフ1は，2009年度，2011年度，2013年度の，オンライン・ショッピング（インターネットを利用した買い物）の市場の大きさの推移を示している。グラフ2は，2009年度，2011年度，2013年度の，消費生活センター（地方公共団体が運営する，消費者のための機関）に寄せられたオンライン・ショッピングについての相談件数の推移を示している。図2は，消費者問題に対する行政機関の取り組みを表した模式図である。図2から分かる，消費者問題に対する行政機関の取り組みとその目的を，グラフ1とグラフ2から読み取れることに関連づけて，70字程度で書きなさい。

グラフ1

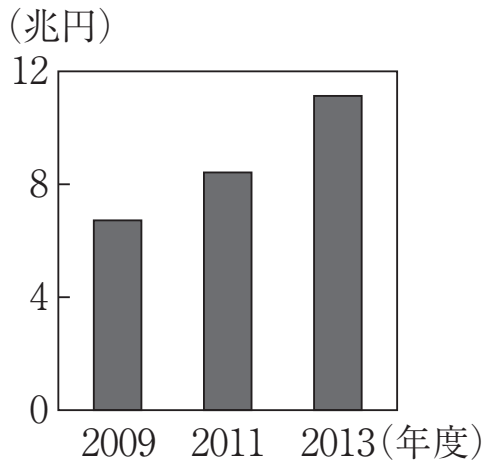

注　経済産業省資料などにより作成

グラフ2

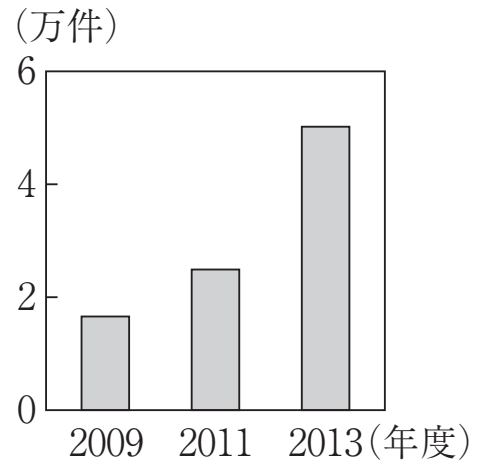

注　消費者庁資料などにより作成

図2

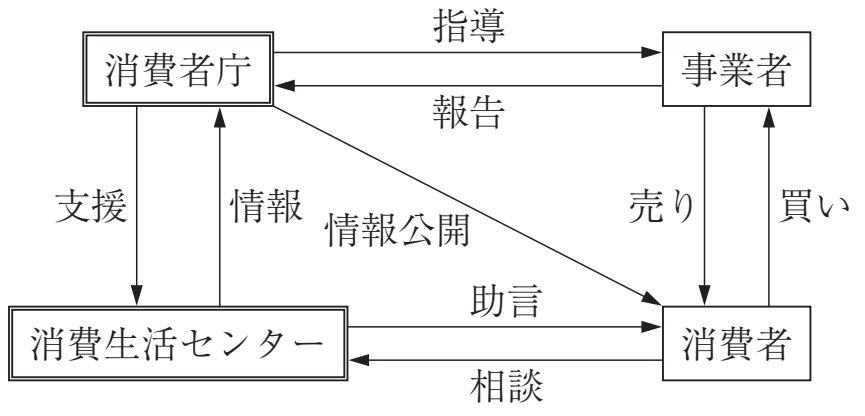

注1　消費者庁資料などにより作成
注2　[二重枠]は行政機関を示している。

【静岡県】

Step 3

3 次の問いに答えなさい。

問１　株式会社について述べた次の文を読んで，あとの(1)，(2)の問いに答えよ。

> 株式会社は，株式を発行し，証券市場などを通じて家計や企業から資金を調達している。一般的に，会社の経営は，会社の重要事項を決める［ X ］で選ばれた専門の経営者である取締役によっておこなわれている。

(1)　下線部について，金融のしくみのうち，このような資金調達の方法を何というか。

(2)　［ X ］にあてはまる語を書け。

問２　消費者保護のしくみについて述べた次のA，Bの文の正誤の組み合わせとして，正しいものは下のア～エのどれか。

A　訪問販売で商品を購入した場合，クーリング・オフの制度では，一定の期間内でも正当な理由がなければ契約を解除することはできない。

B　商品の欠陥によって消費者が被害を受けた場合，製造物責任法により，企業の過失に関係なく損害賠償の責任を，製造企業に負わせることができる。

ア　A＝正，B＝正　　イ　A＝正，B＝誤

ウ　A＝誤，B＝正　　エ　A＝誤，B＝誤

問３　為替レートについて述べた次の文の［ P ］，［ Q ］にあてはまるものの組み合わせとして，正しいものは下のア～エのどれか。

> 為替レートが例えば１ドル＝200円から１ドル＝100円へ変動すると，ドルに対する円の価値は［ P ］となり，［ Q ］という状態となる。

ア　P＝２分の１，Q＝円安・ドル高　　イ　P＝２倍，Q＝円安・ドル高

ウ　P＝２分の１，Q＝円高・ドル安　　エ　P＝２倍，Q＝円高・ドル安

問４　2015年に温室効果ガス削減等に関する新たな協定が採択された。この協定は，参加する国や地域が世界の平均気温の上昇を，産業革命以前と比べて２℃より低く保つことを目標としている。この協定を何というか。

問５　次の文は，先生と生徒の間で交わされた会話の一部である。［S］～［U］にあてはまる語を書け。

先生：「地球上の誰一人として取り残さない」をスローガンに，国連が定めた「持続可能な開発目標」は，英語での表記の頭文字などをとって［S］と呼ばれています。

生徒：［S］には，17 の目標がありますよね。

先生：そうですね。例えば，「貧困をなくそう」という目標達成のために，途上国で生産されたコーヒー豆を先進国の人々が公正な価格で取引する取り組みが注目されています。

生徒：そのような取引は［T］と呼ばれていますね。私も，お店でコーヒーを買うときに，［T］の商品を買うようにしています。

先生：いいですね。ところで，日本では，男女が対等な立場で家庭，地域，政治など，あらゆる場面で活躍する社会の実現を目指して，1999 年に［U］基本法が制定されました。

生徒：そうでした。その法律と［S］の「ジェンダー平等を実現しよう」という目標との関係について調べてみようと思います。

【長崎県】

第26講　公民総合問題

Step　1

1　問1. 4　問2. 少子高齢化が進展することで，将来の税や保険料の納入額に影響がでるから。（同意可）　問3. X. 2　Y. 1　Z. 3

Step　2

2　(1) a. 労働組合　b. エ　(2) a. あ 最高　い 立法　b. 衆議院の出席議員の3分の2以上の多数で再可決したので，成立した。（同意可）　(3) オンライン・ショッピングの市場が拡大するとともに，相談件数も増えているので，消費者を守るために，行政機関が情報公開や指導，助言を行っている。（70字）（同意可）

Step　3

3　問1. (1) 直接金融　(2) 株主総会　問2. ウ　問3. エ　問4. パリ協定　問5 S. SDGs　T. フェアトレード　U. 男女共同参画社会

©RECRUIT
本サービスに関する知的財産権その他一切の権利は著作権者に帰属します。
また本サービスに掲載の全部または一部につき無断複製・転載を禁止します。